005.748.292-61.127335

PROJETO CAVEIRA

03 POLÍCIA MILITAR DE SÃO PAULO SIMULADO COMPLETO

Provas Objetivas e Discursivas

“A grandeza não consiste em receber honras, mas em merecê-las.”
Aristóteles

Língua Portuguesa

Observe o quadro de Benedito Calixto e leia o texto para responder à questão.



O artista descreve minuciosamente a época de cheia da Várzea do Carmo, em 1892, indicando o cotidiano do rio na cidade de São Paulo. O formato panorâmico evidencia a amplitude da cidade, demonstrando detalhes de seu horizonte paisagístico. Calixto faz com que o rio, um motivo cotidiano, frequentemente representado em pequenos suportes, aqui adquira a importância de personagem histórico em diálogo com a cidade.

(OLIVEIRA, Helder Manuel Silva. In: *Castagneto e o contexto artístico*

paulista do século XIX. (institutopoimenica.com/acesso em 15.02.20)

1
Considerando o quadro e o texto, conclui-se que o pintor retrata o rio como um:

(A) Simples acessório com pouca importância na paisagem urbana.
(B) Elemento que reflete a estagnação do progresso da cidade.
(C) Objeto figurativo de pouca relevância na amplitude do quadro.
(D) Detalhe decorativo, deslocado no conjunto de figuras da paisagem.
(E) Componente representativo das características da cidade.

Leia o texto para responder às questões.

São Paulo revive mesmas enchentes há 91 anos

Em uma de suas principais obras, Benedito Calixto retratou, em 1892, a inundação da área do atual Mercadão, no centro de São Paulo. A região foi atingida também em 1929, numa das primeiras grandes enchentes da capital e submergiu novamente, quase 130 anos depois do quadro histórico.

Urbanistas afirmam que uma das principais explicações para as repetidas inundações foi a decisão de expandir a cidade para as áreas próximas às várzeas dos rios Tietê e Tamanduateí, a partir de meados de 1890. O quadro de Benedito Calixto capta o início dessa expansão da cidade. A cheia histórica de 1929 também foi registrada em uma série de fotografias que viraram sinônimo das inundações paulistanas, por ter deixado a cidade debaixo da água por sete dias.

Há suspeita de que os efeitos da forte chuva que atingiu São Paulo naquele fevereiro de 1929 tenham sido potencializados por ações da então onipresente Light. O acordo com o poder público previa que a Light poderia desapropriar áreas atingidas por enchentes naquele ano.

Pesquisa da professora da USP Odette Seabra indica que a Light abriu suas represas para aumentar a área inundada pelos rios Pinheiros, Tietê e Tamanduateí. Essas áreas inundadas passaram para as mãos da Light, que depois as comercializou.

Os fatos recentes mostram que a história se repete: 63% dos alagamentos neste ano de 2020 estão na mesma região atingida pela cheia de 1929, que corresponde à da subprefeitura da Sé. Mas desta vez, os locais inundados não se restringem à área do Mercadão. Áreas das subprefeituras da Lapa e de Pinheiros também foram atingidas.

As obras e intervenções para conter as cheias dos rios nessas áreas não foram suficientes. Um outro agravante é que o solo da cidade tem ficado cada vez mais impermeável, com aumento das áreas construídas e ocupadas.

(*Folha de S. Paulo*.15.02.2020. Adaptado)

2
De acordo com o texto, pode-se afirmar que as inundações na cidade de São Paulo:

(A) São problemas recentes, sem relação com as decisões do poder público.
(B) Ocorrem no atual momento em função de fenômenos da natureza.
(C) São fatos recorrentes, relacionados ao crescimento da cidade.
(D) Decorrem do desencontro entre os urbanistas e o poder público.
(E) Acontecem, ainda que as autoridades se esforcem para evitá-las.

3
A pesquisa de Odette Seabra permite concluir que a Light:

(A) Procurou amenizar as consequências de enchentes.
(B) Cumpriu determinação da administração pública.
(C) Preveniu as autoridades quanto a possíveis inundações.
(D) Agiu de forma a favorecer a ocorrência de inundações.
(E) Abdicou do direito de posse das áreas inundadas.

4
Lendo-se o texto, conclui-se que urbanistas e pesquisadores:

(A) Apontam as questões que podem desencadear os alagamentos na cidade.
(B) Atribuem aos fenômenos da natureza a causa histórica das enchentes.
(C) Provam que o poder público esgotou todas as estratégias para conter as enchentes.
(D) Afirmam que os alagamentos não têm relação com a expansão e o progresso da cidade.
(E) Defendem a contribuição das empresas para estancar os alagamentos na cidade.

5
Assinale a afirmação correta, de acordo com o texto.

(A) A pesquisa de Odette Seabra procura minimizar o procedimento adotado pela Light.
(B) Ao longo dos anos, o poder público tem aprimorado as ações contra enchentes na cidade.
(C) É improcedente afirmar que os alagamentos possam decorrer da impermeabilização do solo.
(D) As subprefeituras da Lapa e de Pinheiros atestam os maiores índices de alagamento deste ano.
(E) A obra de Benedito Calixto é um prenúncio dos alagamentos futuros na cidade de São Paulo.

6
Assinale a alternativa em que todas as expressões podem ser associadas às causas das enchentes.

(A) Abertura de represas e pesquisa de Odette Seabra.
(B) Impermeabilização do solo e expansão da cidade.
(C) Aumento de áreas próximas às várzeas e excesso de zelo do poder público.
(D) Comercialização das várzeas pela Light e cuidado do cidadão para com a cidade.
(E) Explicação dos urbanistas e fortes chuvas de fevereiro.

7
Assinale a alternativa que substitui, correta e respectivamente, sem alteração de sentido, os termos em destaque nas frases:
As obras e intervenções para <u>conter</u> as cheias dos rios …
Os locais inundados não <u>se</u> <u>restringem</u> à área do Mercadão.

(A) Frear e se limitam.
(B) Represar e se equivalem.
(C) Demarcar e se assemelham.
(D) Comprimir e se justapõem.
(E) Contornar e se comparam.

8
Assinale a alternativa em que a barra deve ser substituída por dois-pontos.

(A) O Mercadão faz parte da subprefeitura mais alagada/ a da Sé.
(B) Quando começa a chover forte/ os moradores ficam amedrontados.
(C) Se o poder público não investir em saneamento/ os alagamentos continuarão.
(D) Naquela época/ o alagamento afetava apenas as margens do Tamanduateí.
(E) Autor do quadro *Inundação da Várzea do Carmo*/ Benedito Calixto retratou a cidade de São Paulo.

9
O trecho em destaque da frase - <u>Há suspeita de que</u> os efeitos da chuva tenham sido potencializados por ações da Light. – está corretamente reescrito, de acordo com a norma-padrão da regência, em:

(A) Supõe-se que.
(B) Insinua-se de que.
(C) Investiga-se em que.
(D) Desconfia-se em que.
(E) Duvida-se em que.

10
O verbo <u>há</u> na frase - São Paulo revive mesmas enchentes há 91 anos – está corretamente alterado, de acordo com a norma-padrão da concordância, em:

(A) Fazem.
(B) Devem fazer.
(C) Faz.
(D) Podem fazer.
(E) Farão.

11
As palavras "histórico", "próximas" e "várzeas" são acentuadas por serem, correta e respectivamente:

(A) Oxítona – oxítona – proparoxítona.
(B) Paroxítona – oxítona – proparoxítona.
(C) Paroxítona – paroxítona – oxítona.
(D) Oxítona – proparoxítona – oxítona.
(E) Proparoxítona – proparoxítona – paroxítona.

12
As palavras "submergir". "potencializar" e "conter" possuem antônimos corretos na assertiva:

(A) Assomar / exigir / manter.
(B) Mergulhar / aliviar / enquadrar.
(C) Mostrar-se / atenuar / exceder.
(D) Imergir / diminuir / abusar.
(E) Emergir / sofrear / expor.

13
"Quando as águas atingem o topo do rio, tudo desmorona", a oração pode ser reescrita, sem alteração de sentido, por:

(A) Se as águas atingirem o topo do rio, tudo desmoronará.
(B) Caso as águas venham a atingir o topo do rio, tudo irá desmoronar.
(C) Tudo desmorona à medida que as águas atingem o topo do rio.
(D) Tudo desmorona assim que as águas atingem o topo do rio.
(E) Para que tudo desmorone, as águas devem atingir o topo do rio.

14
"Portanto, em suas obras, Calixto retratou a realidade". O termo destacado pode ser substituído corretamente por:

(A) Porque.
(B) Assim.
(C) Entretanto.
(D) E.
(E) Contudo.

15
"É _____ a entrada de pessoas não autorizadas. _____ não pode entrar ali, mesmo nós que somos donos. Isso aí é engraçado. Porque não _____ existir muitos funcionários no local".
As palavras que completam corretamente as lacunas são:

(A) Proibida – Agente – Deve.
(B) Proibido – Agente – Devem.
(C) Proibido – A gente – Devem.
(D) Proibida – A gente – Devem.
(E) Proibido – A gente – Deve.

16
Assinale a alternativa em que a frase está redigida de acordo com a norma-padrão de concordância nominal e verbal.

(A) *Os músicos de Bremen* é uma ótima banda.
(B) Só existia crianças na escola.
(C) Meu óculos sumiu, não o acho há dias.
(D) Deu duas horas da tarde.
(E) Tem candidatos na praia.

17
Assinale a alternativa que as palavras estejam todas grafadas corretamente.

(A) Abençôe – Com certeza – Exceção.
(B) Abençoe – Concerteza – Exceção.
(C) Abençoe – Com certeza – Exceção.
(D) Abençôe – Concerteza – Excessão.
(E) Abençôe – Com certeza – Excessão.

18
No que tange à colocação pronominal, assinale a alternativa correta.

(A) Não iluda-te! Estudar não é fácil.
(B) Em se tratando de bolo, a Dona Maria manda super bem.
(C) Ou jogo-me, ou mato-me.
(D) Quando avisou-te da prova? Eu nem estudei.
(E) Me diga uma palavra boa.

19
No trecho "Ela gostaria de estudar português", o verbo passa a ideia de:

(A) Certeza.
(B) Desejo.
(C) Conselho.
(D) Ordem.
(E) Condição.

20
Assinale a alternativa que o termo destacado esteja no sentido figurado.

(A) Pedro me deu um abacaxi, agora o meu problema aumentou ainda mais.
(B) Ela veio cedo e o dia amanheceu com o sol.
(C) Ela ficou bastante irritada.
(D) Martha deitou no banco procurando conforto.
(E) Na viagem, Marcos quebrou o galho da árvore.

Matemática

21
Ontem, no Polo Norte, às 22 horas, a temperatura era de –18 ºC. Em São Paulo, no mesmo horário, a temperatura era de 38 ºC. A diferença entre a temperatura em São Paulo e no Polo Norte corresponde a:

(A) 56 ºC.
(B) 46 ºC.
(C) 36 ºC.
(D) 26 ºC.
(E) 16 ºC.

22
Mévio e Tício participaram de uma atividade voluntária que consistiu na limpeza da fachada de uma delegacia da polícia militar do estado. No final do dia, restaram duas garrafas de detergente idênticas (de mesmo tamanho e marca). Uma dessas garrafas estava cheia de detergente até a metade de sua capacidade e a outra estava cheia de detergente até 3/4 de sua capacidade. Ambos decidiram juntar esse excedente e dividir em duas partes iguais, a serem armazenadas nessas mesmas garrafas.

A fração que representa o volume de detergente em cada uma das garrafas, em relação à sua capacidade, após essa divisão corresponde a:

(A) 1/3.
(B) 5/8.
(C) 5/6.
(D) 4/3.
(E) 5/2.

23
Uma determinada empresa dispõe de 7 varas de ferro de 6 metros de comprimento, 12 varas de ferro de 9,6 metros de comprimento e 13 varas de ferro de 12 metros de comprimento. Desejando-se fabricar vigotas para laje pré-moldada, deve-se cortar as varas em ‘’pedaços’’ de mesmo tamanho e maior possível. Sabendo-se, também, que para a construção de cada vigota são necessários 3 ‘’pedaços’’ de ferro, quantas vigotas serão obtidas?

(A) 261.
(B) 119.
(C) 96.
(D) 87.
(E) 48.

24
O pelotão A, a cada 15 dias, realiza torneio de tiro em sua base; o pelotão B realiza o mesmo torneio no mesmo local a cada 18 dias. Se hoje ambos os pelotões realizaram esse torneio, após quantos dias coincidirá o torneio novamente (sem contar o dia de hoje)?

(A) 58.
(B) 60.
(C) 80.
(D) 85.
(E) 90.

Rascunho:

25
Três grandezas A, B e C são tais que A é diretamente proporcional a B, e B é inversamente proporcional a C.

Quando B = 4 e C = 18, tem-se A = 60.

Quando A = 45, o valor de B + C é igual a:

(A) 25.
(B) 26.
(C) 27.
(D) 28.
(E) 29.

26
Para determinado concurso público o edital previa a sua realização em duas etapas. Na primeira, 75% dos candidatos inscritos foram eliminados. Na segunda etapa, 65% dos candidatos não-eliminados na primeira etapa foram eliminados.

Julgue o item seguinte, relativo a esse concurso.

Com relação aos candidatos inscritos, a taxa de eliminados corresponde a:

(A) 90,15%.
(B) 90,25%.
(C) 90,50%.
(D) 91,25%.
(E) 91,50%.

27
Considerando que uma equipe de 30 policiais, igualmente produtivos, construa um estande de tiro de 10km de extensão em 30 dias, julgue o próximo item. Se, ao iniciar a obra, a equipe designada para a empreitada receber reforço de uma segunda equipe, com 90 policiais igualmente produtivos e desempenho igual ao dos policiais da equipe inicial, então a estande de tiro será concluída em:

(A) 6 dias.
(B) 6,5 dias.
(C) 7 dias.
(D) 7,5 dias.
(E) 8 dias.

28
Tício obteve média 6,7 nas quatro provas que fez. Que nota ele deverá obter na quinta prova, para que sua média seja 7,0?

(A) 8,8.
(B) 8,2.
(C) 7,9.
(D) 7,3.
(E) 6,9.

Rascunho:

29
Dois estudantes estavam conversando sobre o tema de equação do primeiro grau, tema que inclusive está expresso no edital da polícia militar. Dessa forma, o primeiro estudante fez a seguinte indagação para o segundo estudante:

Calcule, em R, o valor de x que satisfaz a equação:

$$\frac{10}{x^2-9}+\frac{x+4}{x+3}=\frac{x+2}{x-3}$$

(A) -2.
(B) $5\sqrt{2}$.
(C) 3.
(D) 2.
(E) 5.

30
Qual é o número cujo quíntuplo mais 27 unidades é igual ao número de dois algarismos de maior valor?

(A) 10,4.
(B) 12,4
(C) 14,4.
(D) 16,4.
(E) 18,4.

31
Com relação às medidas de comprimento, julgue o item a seguir.

Qual o resultado da soma: 81,7cm + 972mm + 0,1345hm?

OBS: O resultado encontrado deve estar em dm.

(A) 165, 48 dm.
(B) 152,39 dm.
(C) 125,92 dm.
(D) 115,92 dm.
(E) 105,38 dm.

32
Uma determinada vacina deve ser administrada a um policial três vezes ao dia, em doses de 5 ml, cada vez, durante 10 dias. Sabendo que cada frasco contém 100 cm³ da vacina, o número de frascos necessários será igual a:

(A) 3,0.
(B) 2,5.
(C) 2,0.
(D) 1,5.
(E) 1,0.

Rascunho:

33
Um Estado do Brasil forneceu um terreno para a polícia militar. O terreno possui a forma da figura abaixo:

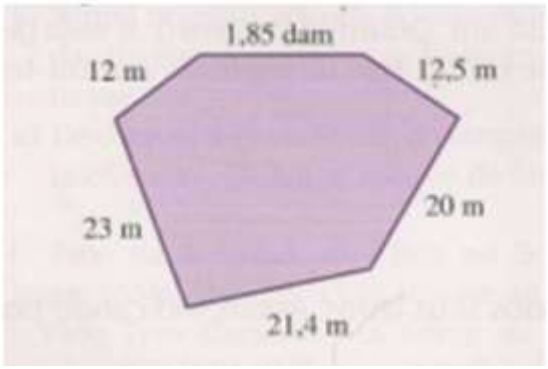

Quantos metros de arame serão necessários para cercá-lo, se a cerca tiver quatro fios?

(A) 600,0 m.
(B) 550,0 m.
(C) 481,0 m.
(D) 450,0 m.
(E) 429,6 m.

34
A polícia militar apreendeu três objetos que foram organizados sobre uma mesa na forma de um triângulo retângulo. Nesse triângulo retângulo, o maior e o menor lado medem, respectivamente, 12 cm e 4 cm.

Assim, qual é a área desse triângulo?

(A) $16\sqrt{2}\ cm^2$.
(B) $4\sqrt{2}\ cm^2$.
(C) $16\ cm^2$.
(D) $8\sqrt{2}\ cm^2$.
(E) $24\ cm^2$.

Espaço livre:

35
A figura a seguir representa o molde da superfície de uma caixa que possui um líquido ilícito. Veja:

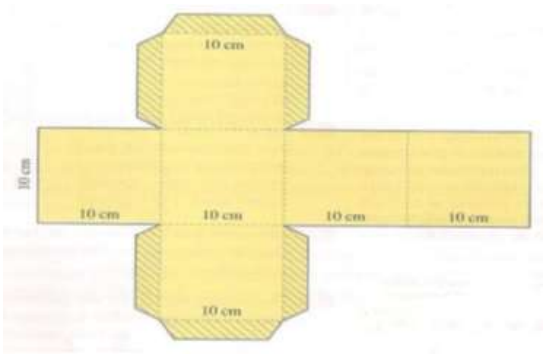

Após montada, quantos litros desse líquido ilícito cabem na caixa?

(A) 100 litros.
(B) 0,01 litros.
(C) 10 litros.
(D) 0,1 litros.
(E) 1 litro.

Conhecimentos Gerais

36
Analise a charge.

(http://uajev.syscall.ws/img/264689/25-48.jpg)

A respeito do período de confrontos representado na charge, é correto afirmar que:

(A) Um dos principais eventos do período foi a extinção de organizações internacionais como a Otan (Organização do Tratado do Atlântico Norte).
(B) O período teve seu apogeu no final da década de 1990, quando os Estados Unidos começaram as invasões do Irã e do Iraque.
(C) O maior embate do período ocorreu quando os países europeus romperam o acordo de paz com os Estados Unidos e fundaram a União Europeia.
(D) O período teve momentos de grande tensão política e ideológica, que envolveram conflitos como a Guerra do Vietnã e a Revolução Cubana.
(E) A disputa teve seu encerramento na década de 1970, quando a então União Soviética aceitou o predomínio espacial estadunidense.

37
Leia os itens a seguir:

I. O Neoliberalismo é uma doutrina socioeconômica que retoma os antigos ideais do liberalismo clássico ao preconizar a mínima intervenção do Estado na economia.

II. A implantação do Neoliberalismo pelos governos de vários países iniciou-se na década de 1930, como principal resposta à Crise de 1929.

III. Os neoliberais defendem, principalmente, a política do Estado de Bem-Estar Social, um dos preceitos básicos da social democracia.

Estão corretas as afirmações contidas em:

(A) Apenas I.
(B) Apenas II.
(C) Apenas III.
(D) Apenas II e III.
(E) Apenas I e III.

38
Em relação ao processo de globalização, assinale a alternativa correta:

(A) A globalização é um fenômeno resultante do processo de integração exclusivamente político.
(B) O desenvolvimento dos transportes e das comunicações foi fundamental para possibilitar a ocorrência da globalização.
(C) A globalização econômica fortaleceu as indústrias nacionais e locais no mundo todo.
(D) Devido aos seus inúmeros benefícios, atualmente não existem movimentos antiglobalização no mundo.
(E) Em razão de ser um país em desenvolvimento, o Brasil não conseguiu se integrar ao processo de globalização.

Espaço livre:

39
Em 18 de setembro de 1946, foi promulgada a quinta Constituição brasileira, a quarta republicana. Com 218 artigos, manteve a denominação Estados Unidos do Brasil. O Congresso foi dividido em duas casas. O mandato do Presidente da República foi estabelecido em cinco anos. A eleição do Presidente e Vice seria simultânea, ou seja, não formariam uma chapa, seriam escolhidos separadamente pelo eleitor. (Marco Antonio Villa. A história das Constituições brasileiras, 2011)

A experiência política brasileira derivada da Constituição citada pode ser exemplificada pela:

(A) Alternância no poder central de políticos apoiados pelos governadores do conjunto dos estados da Federação.
(B) Predominância eleitoral de partidos políticos representantes das classes de assalariados rurais.
(C) Concentração das decisões políticas no poder executivo em prejuízo dos poderes legislativos e judiciários.
(D) Censura regular às manifestações de industriais que se opunham aos governos federal e estaduais
(E) Mudança, no governo federal, de um candidato eleito por um partido conservador para um político ligado a sindicatos de trabalhadores.

40
O último presidente do Regime Militar (1964-1985), responsável por consolidar o processo de abertura política, foi:

(A) Emílio Garrastazu Médici.
(B) Ernesto Geisel.
(C) João Baptista Figueiredo.
(D) Artur Costa e Silva.
(E) Humberto Castelo Branco.

41
O primeiro presidente eleito pelo voto popular depois do Regime Militar (1964-1985) no Brasil foi:

(A) José Sarney.
(B) Fernando Collor de Mello.
(C) Fernando Henrique Cardoso.
(D) Itamar Franco.
(E) Tancredo Neves.

Espaço livre:

42
Cerca de 12 milhões de hectares de florestas tropicais desapareceram em 2018, o equivalente a 30 campos de futebol por minuto. Os dados de 2018 são do Global Forest Watch, atualizado pela Universidade de Maryland, nos Estados Unidos. O levantamento mostra o complexo retrato do desmatamento em áreas com densas florestas tropicais.
(https://www.bbc.com/portuguese/geral-48046107. Acesso em 13.05.2109. Adaptado)

Além da Amazônia, a campeã em desmatamento, outra área de forte desmatamento é:

(A) A Índia, devido à implantação de indústrias de papel e celulose e dos incêndios naturais.
(B) O sul da Ásia, devido ao aumento da exploração mineral e da implantação de usinas hidrelétricas.
(C) O norte da África, devido à criação de reservatórios e da expansão da pecuária intensiva.
(D) A Ásia central, devido à instalação de novos centros urbanos e da produção petrolífera.
(E) A África Central, devido à expansão da agropecuária e da produção de carvão vegetal.

43
É um fenômeno atmosférico caracterizado pela retenção do ar frio próximo da superfície, sobreposto por uma camada de ar quente. O fenômeno ocorre nos grandes centros urbanos e é mais comum durante as primeiras horas do dia e no inverno, quando os dias são mais frios.

O enunciado faz referência ao fenômeno:

(A) Chuva ácida.
(B) Ilha de Calor.
(C) Inversão Térmica.
(D) Aquecimento Global.
(E) Geada.

44
Aquecimento global é o aumento da temperatura média dos oceanos e da camada de ar próxima à superfície da Terra que pode ser consequência de causas naturais e atividades humanas.

Assinale a alternativa INCORRETA sobre as principais atividades humanas que causam o aquecimento global e consequentemente as mudanças climáticas:

(A) Queimadas.
(B) Atividades Industriais.
(C) Uso de combustíveis fósseis.
(D) Reflorestamento.
(E) Conversão de uso do solo para agropecuária.

45
Observe o mapa para responder à questão.

(CALDINI, Vera e ÍSOLA, Leda. *Atlas geográfico Saraiva*. Adaptado)

Assinale a alternativa que identifica, corretamente, a legenda do mapa.

(A) Regiões com fraco dinamismo demográfico.
(B) Principais concentrações industriais.
(C) Áreas com elevado nível de erosão dos solos.
(D) Novas áreas de produção agropecuária.
(E) Grandes polos de produção mineral.

46
A matriz elétrica brasileira é mais renovável do que a mundial. A maior parte da energia elétrica gerada no Brasil vem da seguinte fonte:

(A) Eólica.
(B) Hidráulica.
(C) Solar.
(D) Biomassa.
(E) Petróleo.

47
Para superar os Estados Unidos e se tornar o principal produtor do mundo, o Brasil expandiu por anos as lavouras destinadas ao produto. Só entre 2000 e 2014, a área destinada a plantar essa commodity no interior do País – em estados como Tocantins, Bahia, Piauí e Maranhão – cresceu 87%. Boa parte dela abrigava vegetação nativa, originalmente.
(https://super.abril.com.br/tecnologia/o-avanco - mapeado-pela-nasa/ Acesso em 18.05.2019. Adaptado)

O texto descreve a expansão da produção:

(A) Do café pela mata atlântica.
(B) Da soja pelo cerrado.
(C) Do milho pela caatinga.
(D) Da cana-de-açúcar pela mata atlântica.
(E) Do cacau pela floresta amazônica.

48
A revista norte-americana Time escolheu como personalidade do ano de 2022:

(A) Luiz Inácio Lula da Silva, presidente eleito no Brasil.
(B) Emmanuel Macron, presidente reeleito na França.
(C) Elon Musk, fundador da Space X e Tesla.
(D) Volodymyr Zelenky, presidente da Ucrânia.
(E) Lionel Messi, jogador de futebol argentino.

49
O presidente Pedro Castillo foi preso após ser destituído do cargo pelo Congresso do país. A decisão, votada nesta quarta-feira (7), ocorreu depois que o líder dissolveu o Parlamento do país.
(G1. 07.12.2022)

O fato destacado na notícia ocorreu na (o):

(A) Argentina.
(B) Bolívia.
(C) Chile.
(D) México.
(E) Peru.

50
A Segunda Turma do Supremo Tribunal Federal (STF) formou maioria para derrubar a prisão preventiva de _____. Com a decisão, ele será solto e irá para prisão domiciliar. Ele é o último dos presos da Lava Jato ainda encarcerado.
(UOL. 17.12.2022)

A notícia faz referência a:

(A) Sérgio Cabral, ex-governador do Rio de Janeiro.
(B) Eduardo Cunha, ex-deputado federal.
(C) Eike Batista, empresário teuto-brasileiro.
(D) Roberto Jefferson, ex-deputado federal.
(E) Paulo Roberto Costa, ex-diretor da Petrobras.

Espaço livre:

Noções Básicas de Informática

Analise a imagem abaixo:

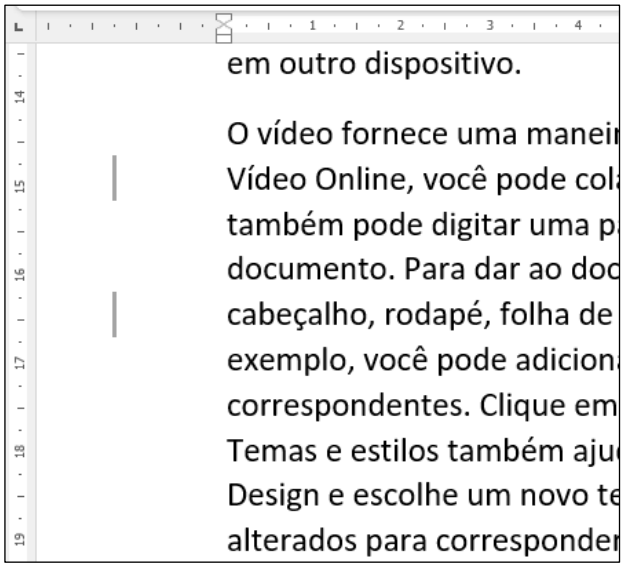

51.
Qual dos recursos do Microsoft word 2010 em português Brasil está ativado?

(A) Controlar Alterações.
(B) Mostrar Tudo.
(C) Ortografia e Gramática.
(D) Tamanho.
(E) Margens.

52
O botão **, presente na barra de tarefas do Windows 10 Pro, instalação padrão, em português, demonstra que o computador do usuário:**

(A) Está desconectado da internet.
(B) Possui algum dispositivo próximo que possa se conectar.
(C) Precisa ser reiniciado para instalar atualizações.
(D) Está sincronizando dados com a nuvem.
(E) Está em modo de suspensão.

Espaço livre:

53
A planilha a seguir foi elaborada por meio do MS-Excel 2010, em sua configuração padrão, e mostra uma lista de terrenos e suas respectivas áreas.

	A	B
1	Terreno	M^2
2	1	100
3	2	59
4	3	400
5	4	257
6	5	139
7		

O valor exibido na célula A7, após esta ser preenchida com a fórmula =SE(B2>100;B4;B5), será:

(A) 59.
(B) 100.
(C) 139.
(D) 257.
(E) 400.

54
João estava navegando em um site e se deparou com a seguinte informação:

https://www.policiamilitar.sp.gov.br/Servicos/orientacao-seguranca

Essa informação, em um navegador web, designa:

(A) em qual país do mundo o site está hospedado. Nesse caso, está hospedado nas dependências do governo de São Paulo no país Brasil.
(B) uma URL (Uniform Resource Locator - Localizador Uniforme de Recursos), onde https é um protocolo de navegação segura e policiamilitar.sp.gov.br é o endereço do site na web.
(C) **www** refere-se ao tipo de serviço que está sendo ofertado. Nesse caso, o serviço pode ser acessado somente na rede interna da corporação.
(D) **Servicos** é o nome do servidor que será acessado para oferecer o serviço de navegação.
(E) **sp.gov.br** restringe o acesso aos cidadãos da cidade de São Paulo.

55
Assinale a alternativa que contém um endereço válido de correio eletrônico:

(A) pedro@serv.com
(B) pedro@serv@com
(C) pedro&serv.com
(D) pedro.serv.com
(E) (pedro@serv.com

Noções de Administração Pública

56
Acerca dos direitos e deveres individuais e coletivos, assinale a alternativa correta.

(A) As entidades associativas têm legitimidade automática para representar seus filiados extrajudicialmente, necessitando de autorização específica apenas para representação judicial.
(B) É possível a reunião de pessoas em locais abertos ao público desde que sem armas, previamente autorizados pelas autoridades competentes e que não frustrem outra reunião anteriormente convocada para o mesmo local.
(C) A liberdade de associação para fins lícitos é ampla, independe de autorização dos Poderes Públicos, que também não podem interferir em seu funcionamento. No entanto, é vedada a associação de caráter paramilitar.
(D) As associações somente poderão ser compulsoriamente dissolvidas por sentença.
(E) Tendo em vista a liberdade plena do exercício de qualquer trabalho, ofício e profissão assegurado pela CF, não pode lei infraconstitucional limitar o alcance de tal direito.

Espaço livre:

57

De acordo às disposições gerais da administração pública, disciplinadas na Constituição do Estado de São Paulo, assinale a alternativa incorreta.

(A) A administração pública direta, indireta ou fundacional, de qualquer dos Poderes do Estado, obedecerá, tão somente, aos princípios de legalidade, impessoalidade, moralidade, publicidade e eficiência, nos mesmos moldes da Constituição Federal.
(B) É vedada a nomeação de pessoas que se enquadram nas condições de inelegibilidade nos termos da legislação federal para os cargos de Secretário de Estado, Secretário-Adjunto, Procurador-Geral de Justiça, Procurador-Geral do Estado, Defensor Público-Geral, Superintendentes e Diretores de órgãos da administração pública indireta, fundacional, de agências reguladoras e autarquias, Delegado-Geral de Polícia, Reitores das universidades públicas estaduais e ainda para todos os cargos de livre provimento dos poderes Executivo, Legislativo e Judiciário do Estado.
(C) A administração é obrigada a fornecer a qualquer cidadão, para a defesa de seus direitos e esclarecimentos de situações de seu interesse pessoal, no prazo máximo de dez dias úteis, certidão de atos, contratos, decisões ou pareceres, sob pena de responsabilidade da autoridade ou servidor que negar ou retardar a sua expedição. No mesmo prazo, deverá atender às requisições judiciais, se outro não for fixado pela autoridade judiciária.
(D) É vedada ao Poder Público, direta ou indiretamente, a publicidade de qualquer natureza fora do território do Estado, para fins de propaganda governamental, exceto às empresas que enfrentam concorrência de mercado e divulgação destinada a promover o turismo estadual.
(E) As entidades da administração direta e indireta, inclusive fundações instituídas ou mantidas pelo Poder Público, o Ministério Público, bem como os Poderes Legislativo e Judiciário, publicarão, até o dia trinta de abril de cada ano, seu quadro de cargos e funções, preenchidos e vagos, referentes ao exercício anterior.

Espaço livre:

58

No tocante aos servidores públicos do Estado, assinale a alternativa incorreta.

(A) O servidor público militar demitido por ato administrativo, se absolvido pela Justiça, na ação referente ao ato que deu causa à demissão, será reintegrado à Corporação com todos os direitos restabelecidos.
(B) O oficial da Polícia Militar só perderá o posto e a patente se for julgado indigno do Oficialato ou com ele incompatível, por decisão do Tribunal de Justiça Militar do Estado.
(C) O direito do servidor militar de ser transferido para a reserva ou ser reformado será assegurado, ainda que respondendo a inquérito ou processo em qualquer jurisdição, nos casos previstos em lei específica.
(D) São servidores públicos militares estaduais os integrantes da Polícia Militar do Estado e naquilo que não colidir com a legislação específica, aplica-se aos servidores mencionados as disposições dos servidores públicos civis.
(E) O oficial condenado na Justiça comum ou militar à pena privativa de liberdade superior a um ano, por sentença transitada em julgado, será submetido ao julgamento previsto ao oficial a polícia militar, por decisão do Tribunal de Justiça Militar do Estado.

59

Concernente à segurança pública, disciplinada na Constituição do Estado de São Paulo, assinale a alternativa incorreta.

(A) A Polícia Militar, integrada pelo Corpo de Bombeiros é força auxiliar, reserva do Exército.
(B) A polícia do Estado será integrada, tão somente, pela Polícia Civil, Polícia Militar e Corpo de Bombeiros.
(C) O Estado manterá a Segurança Pública por meio de sua polícia, subordinada ao Governador do Estado.
(D) A Segurança Pública, dever do Estado, direito e responsabilidade de todos, é exercida para a preservação da ordem pública e incolumidade das pessoas e do patrimônio.
(E) São integrantes da polícia do Estado, além de outras, a polícia civil e a polícia militar.

Espaço livre:

60

Acerca da Lei n.º 12.257/11, que disciplina o Acesso à Informação, assinale a alternativa correta.

(A) No caso de indeferimento de acesso a informações ou às razões da negativa do acesso, poderá o interessado interpor recurso contra a decisão no prazo de 05 (cinco) dias a contar da sua ciência.
(B) Negado o acesso a informação pelos órgãos ou entidades do Poder Executivo Federal, o requerente poderá recorrer à Controladoria-Geral da União, que deliberará no prazo de 3 (três) dias se o acesso à informação não classificada como sigilosa for negado.
(C) As informações pessoais, a que se refere este artigo, relativas à intimidade, vida privada, honra e imagem terão seu acesso restrito, independentemente de classificação de sigilo e pelo prazo máximo de 20 (vinte) anos a contar da sua data de produção, a agentes públicos legalmente autorizados e à pessoa a que elas se referirem.
(D) O responsável pela guarda da informação extraviada deverá, no prazo de 10 (dez) dias, justificar o fato e indicar testemunhas que comprovem sua alegação.
(E) Os órgãos e entidades públicas deverão proceder à reavaliação das informações classificadas como ultrassecretas e secretas no prazo máximo de 1 (um) ano, contado do termo inicial de vigência desta Lei.

Espaço livre:

PROVA DISCURSIVA – PROJETO CAVEIRA

TEMA 03 – PM-SP

TEXTO I

A Amazônia presta um grande serviço ecológico local e também global. Estoca cerca de um quinto de toda a água doce do planeta e tem suma importância na regulação do clima no continente. Possui a extensão de 8 milhões de km², que se estende por nove países da América do Sul, incluindo Colômbia, Venezuela, Equador, Bolívia, Guiana, Suriname, França (Guiana Francesa) e Brasil, que detém a maior parte, cerca de 60% de toda a floresta. Além de se tratar da maior floresta tropical do mundo, essa grandiosidade natural também possui a maior biodiversidade do planeta.

Um relatório preliminar Especialista do Painel Ciência para Amazônia aponta que aproximadamente 17% da floresta amazônica foi convertida para outras utilidades e pelo menos mais 17% foram degradadas. As pesquisas afirmam que Amazônia se aproxima de um ponto de "não retorno", termo que vem sendo utilizado para determinar a perda da capacidade de regeneração do bioma.

Fonte: QUINAGLIA, Herika. Dia da Amazônia: a importância da preservação da floresta Amazônica. Disponível aqui. Acesso em 13/01/2023.

TEXTO II

Fonte: Repassa. **Dia da Amazônia: A importância da preservação e da sustentabilidade.** Disponível aqui. Acesso em 13/01/2023.

A partir da reflexão sobre a coletânea de textos de apoio e de seus conhecimentos gerais, construa um texto dissertativo-argumentativo considerando a seguinte temática:

A IMPORTÂNCIA DA PRESERVAÇÃO DA AMAZÔNIA

Tema: _____ **Data:** _____

RASCUNHO

01	
02	
03	
04	
05	
06	
07	
08	
09	
10	
11	
12	
13	
14	
15	
16	
17	
18	
19	
20	
21	
22	
23	
24	
25	
26	
27	
28	
29	
30	

Tema: _____ **Data:** _____

PROVA DISCURSIVA

01	
02	
03	
04	
05	
06	
07	
08	
09	
10	
11	
12	
13	
14	
15	
16	
17	
18	
19	
20	
21	
22	
23	
24	
25	
26	
27	
28	
29	
30	

005.748.292-61.127335

CARTÃO RESPOSTA

Nome: _____ **Data:** _____ **Simulado:** _____

Nota: _____ **Meta:** _____ **Acertos:** _____ **Erros:** _____ **Brancos:** _____

| | | |